Муниципальное бюджетное общеобразовательное учреждение «Манская средняя общеобразовательная школа» (МБОУ «Манская СОШ»)

Рассмотрено:
На заседании методического объединения
естественно-математического цикла
протокол № 4
от « 03 » 04 2024г.
Руководитель методического объединения
_____/Н.А.Кляус/

Промежуточная (итоговая) аттестация по математике за курс 7 класса

Контрольная работа (Демонстрационный вариант)

1 Найдите значение выражения $\frac{5}{6}+\frac{7}{12}:\frac{7}{2}$.

Ответ:

2 Найдите значение выражения $\frac{2,6-8,4}{2,5}$.

Ответ:

3 В таблице показано соответствие размеров женской обуви в России, Европейском союзе, Великобритании и США.

Россия	35	36	37	38	39	40	41
Европейский союз	36	37	38	39	40	41	42
Великобритания	3,5	4	5	6	6,5	7	8
США	5	5,5	6,5	7,5	8	8,5	9,5

Покупательница носит туфли 37-го размера по российской системе. Какого размера туфли ей нужно спросить, если она зашла в обувной магазин во Франции?

Ответ:

4 Трактор едет по дороге, проезжая 10 метров за каждую секунду. Выразите скорость трактора в километрах в час.

Ответ:

5 Ежемесячная плата за телефон составляет 280 рублей в месяц. Сколько рублей составит ежемесячная плата за телефон, если она вырастет на 5%?

Ответ:

6 Катя младше Тани, но старше Даши. Ксюша не младше Даши. Выберите утверждения, которые верны при указанных условиях, и запишите в ответе их номера.

1) Таня и Даша одного возраста.

2) Среди названных четырёх девочек нет никого младше Даши.

3) Таня старше Даши.

4) Таня и Катя одного возраста.

Ответ:

7 На диаграмме показано содержание питательных веществ в овсяном печенье.

Овсяное печенье

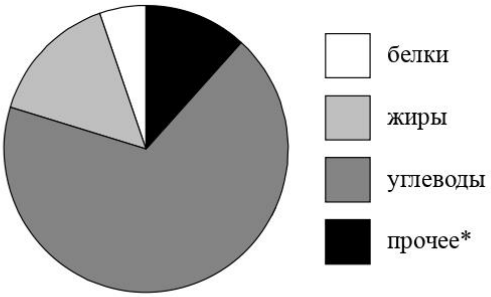

*К прочему относятся вода, витамины и минеральные вещества.

Определите по диаграмме, сколько примерно жиров содержится в 100 г овсяного печенья.

Ответ:

8 На рисунке изображён график линейной функции. Напишите формулу, которая задаёт эту линейную функцию.

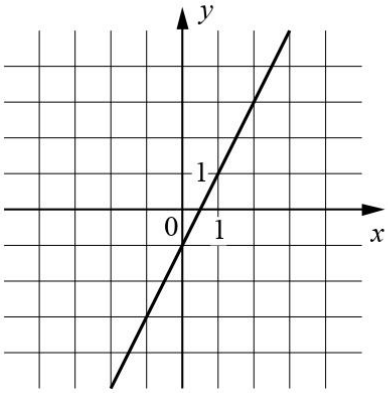

Ответ:

9 Решите уравнение $2+3x=-2x-13$.

Ответ:

10 Прочтите текст.

Байкал — самое глубокое озеро на планете. Наибольшая глубина Байкала – 1642 метра. Байкал находится в Сибири между Иркутской областью и Республикой Бурятия. Живописные берега озера тянутся на 2000 километров, а площадь водной поверхности составляет 31 722 кв. км. Прибрежные территории отличаются уникальным разнообразием флоры и фауны. Вода в Байкале удивительно прозрачна: видно дно на глубине 40 метров. Запасы пресной воды в Байкале огромны: объём озера – 23 615 куб. км. Байкал является частью огромной экологической системы, охватывающей сотни тысяч квадратных километров. Специалисты считают, что снижение уровня воды в Байкале даже на 10 см приведёт к необратимым катастрофическим последствиям для всей Восточной Сибири. Есть план построить на берегу озера завод, который будет выпускать байкальскую воду в бутылках. Экологи сильно обеспокоены сложившейся ситуацией.

Предположим, что завод будет выпускать 20 миллионов пятилитровых бутылок в год. Будет ли заметно понижение уровня воды в Байкале, вызванное деятельностью завода в течение трёх лет? Ответ обоснуйте.

Решение:

Ответ:

11 Найдите значение выражения $(4-y)^2-y(y+1)$ при $y=-\frac{1}{9}$.

Ответ:

12 Отметьте и подпишите на координатной прямой точки $A(1,6)$, $B\left(-2\frac{7}{9}\right)$ и $C(-2,75)$.

Ответ:

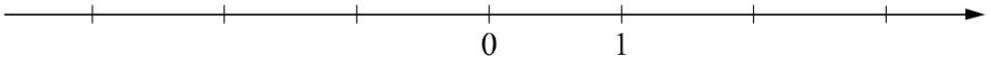

13 На клетчатой бумаге с размером клетки 1×1 отмечены три точки: A, B и C. Найдите расстояние от точки A до прямой BC.

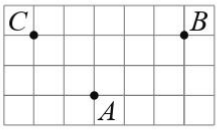

Ответ:

14 В треугольнике ABC проведена биссектриса CE. Найдите величину угла BCE, если $\angle BAC=46^\circ$ и $\angle ABC=78^\circ$.

Решение:

Ответ:

15 Прочтите текст.

К трём часам дня 25 августа воздух прогрелся до +27°С, а затем температура начала быстро снижаться и за три часа опустилась на 9 градусов. Повеяло вечерней прохладой. Температура опускалась всё медленнее, и к девяти часам вечера воздух остыл до 15°. К полуночи неожиданно потеплело на 3 градуса, но ветер снова сменил направление, и к 3 часам ночи температура воздуха опустилась до 12 градусов, а к восходу (в 6 часов утра) похолодало ещё на 3 градуса. Когда рассвело, воздух снова начал прогреваться, но такой жары, как накануне, 26 августа уже не случилось: в полдень было пасмурно, и термометры показывали всего 15°С, а в 15:00 температура оказалась на 6 градусов ниже, чем в это же время накануне.

По описанию постройте схематично график изменения температуры в течение суток с 15:00 25 августа до 15:00 26 августа.

Ответ:

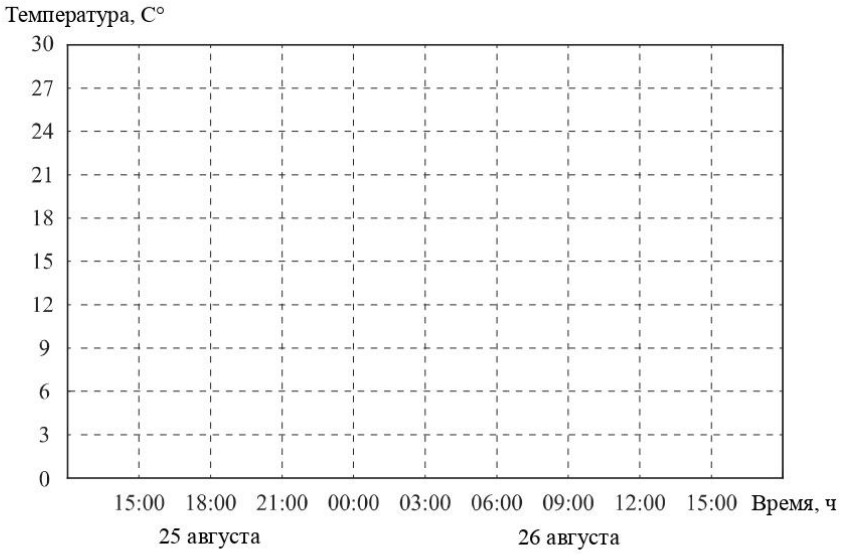

16 Первый участок пути протяженностью 120 км автомобиль проехал со скоростью 80 км/ч, следующие 75 км — со скоростью 50 км/ч, а последние 110 км — со скоростью 55 км/ч. Найдите среднюю скорость автомобиля на протяжении всего пути. Запишите решение и ответ.

Решение:

Ответ: